1 POLE

a. En utilisant les instruments de géométrie, reproduis ci-dessous cette figure en vraie grandeur.

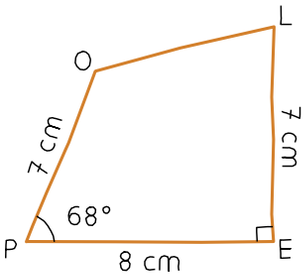

b. Quelle est la nature de l'angle $\widehat{OLE}$?

.....

c. Trace la bissectrice de l'angle $\widehat{POL}$.

2 Étoile

Chaque côté de l'étoile mesure 3,5 cm.
Reproduis l'étoile ci-contre en respectant les données.

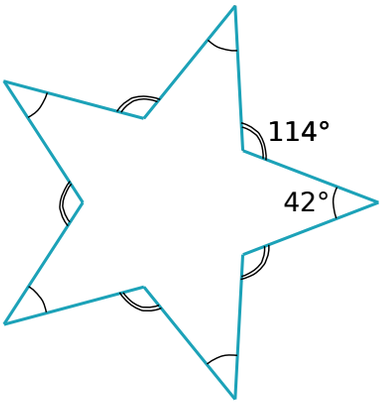
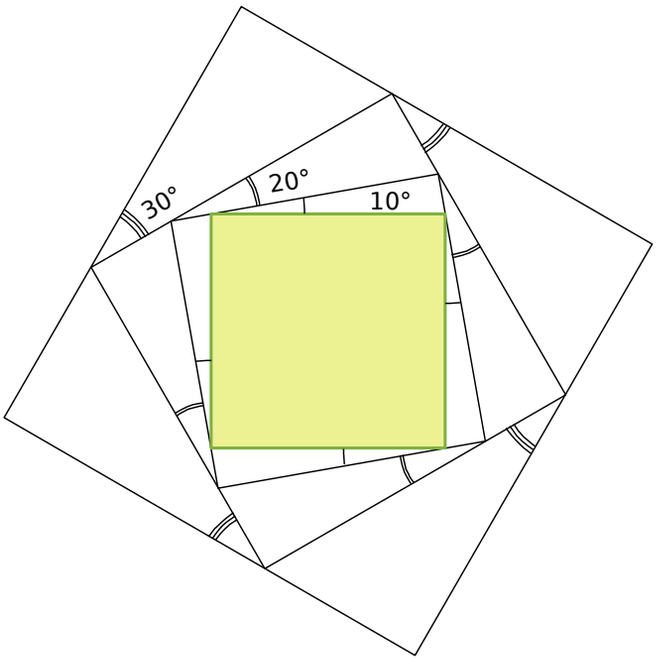
3 À partir du carré coloré, reproduis la figure ci-dessous en utilisant tes instruments de géométrie.