Donner la nature d'un angle

Donner la nature d'un angle

1 Pour chaque cas, donne la nature de l'angle (aigu, obtus, droit ou plat).

a. 27°	.....	**f.** 80°	.....
b. 32°	.....	**g.** 1°	.....
c. 12,3°	.....	**h.** 180°	.....
d. 179,9°	.....	**i.** 154°	.....
e. 90°	.....	**j.** 93,90°	.....

2 Pour chaque cas, indique la nature de l'angle rose (aigu ou obtus).

a.

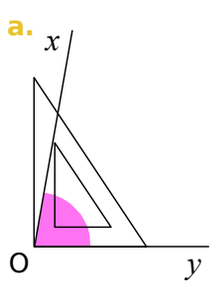

....

b.

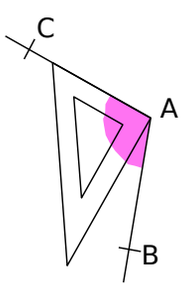

....

c.

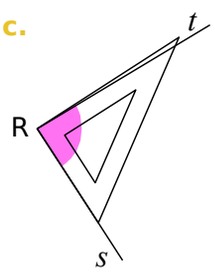

....

3 En utilisant l'équerre, classe les angles dans le tableau ci-dessous.

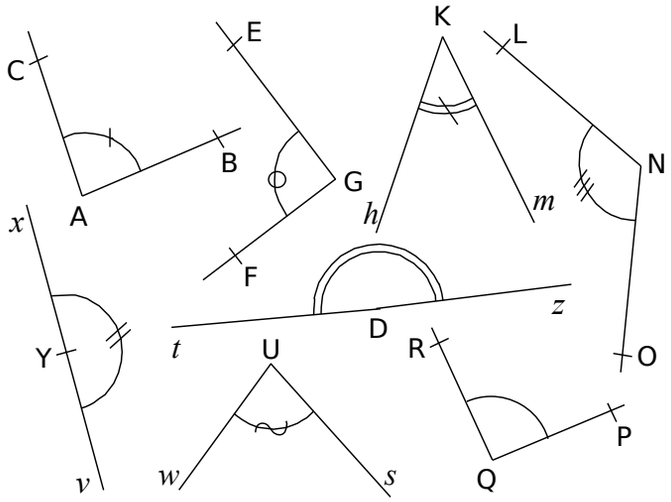

Aigu	Droit	Obtus	Plat

4 Marque les angles aigus avec un arc rouge, les angles obtus avec un arc bleu et les angles droits avec un carré vert.

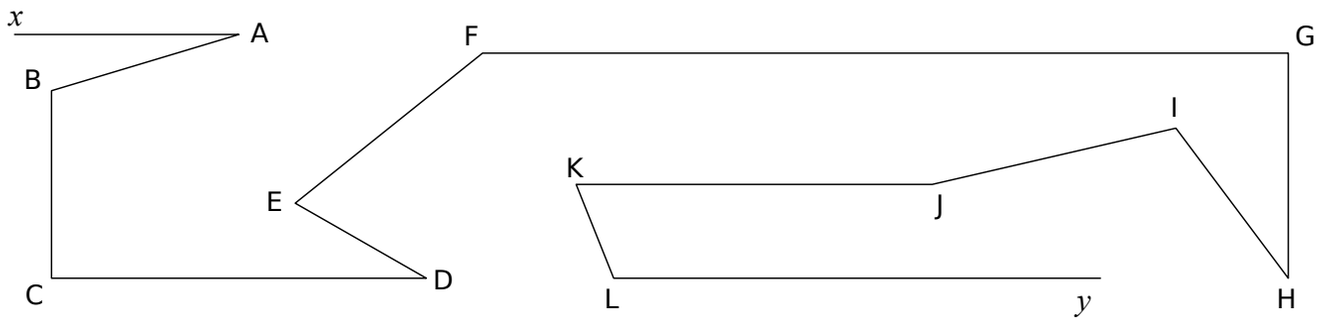

5 En utilisant l'équerre, donne la nature des angles cités.

$\widehat{SAP}$ est un angle .....

$\widehat{DPG}$ est un angle .....

$\widehat{AKP}$ .....

$\widehat{RFS}$ .....

$\widehat{SFH}$ .....

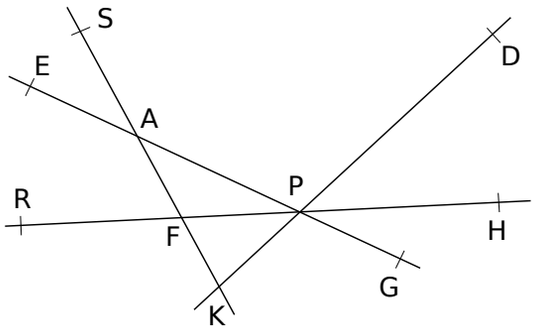

6 Explique pourquoi les figures ci-dessous sont fausses.

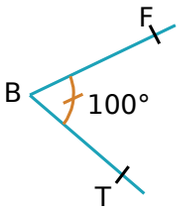

a. .....

.....

.....

.....

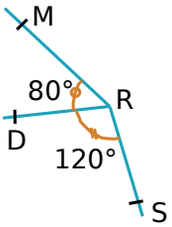

b. .....

.....

.....

.....