1 Écris l'heure du matin et de l'après-midi indiquées par chaque horloge.

	a. 	b. 	c. 	d. 
Matin				
Après-midi				

2 Indique la durée écoulée (inférieure à 12 h) entre les deux horloges.

a.




Durée écoulée : .....

b.




Durée écoulée : .....

c.




Durée écoulée : .....

3 On a relevé les informations indiquant certaines heures de lever et de coucher du soleil à Paris en 2012.

Dates	Lever	Coucher
1er avril	7 h 27	20 h 22
1er juillet	5 h 52	21 h 57
1er septembre	7 h 08	20 h 32
1er octobre	7 h 51	19 h 28

a. Quelle est la durée de chacune des journées indiquées ?

.....

.....

.....

.....

.....

.....

b. Classe ces journées dans l'ordre croissant de leur durée.

.....

.....

4 Martine prend le train à Paris à 12 h 42 et arrive à Quimper à 17 h 05. Elle revient plusieurs jours plus tard. Elle quitte Quimper à 6 h 44 et arrive à Paris à 11 h 11. Quelle est la durée de son trajet aller et de son trajet retour ? Lequel est le plus rapide ?